算数 Web おかわりもんだい 1

大きな数

点数

点

勉強日　　月　　日

答え▼算数①

1 次の数を読みましょう。 10点

800270003000500 [　　]

2 数字で書きましょう。 1つ10点 20点

① 三十六億（おく）五十万四千 [　　]

② 10億（おく）を360こ集めた数 [　　]

3 [　]にあてはまる数を書きましょう。 1つ10点 20点

㋐ [　　]　㋑ [　　]

チャレンジもんだい

8000億（おく）　　1兆（ちょう）

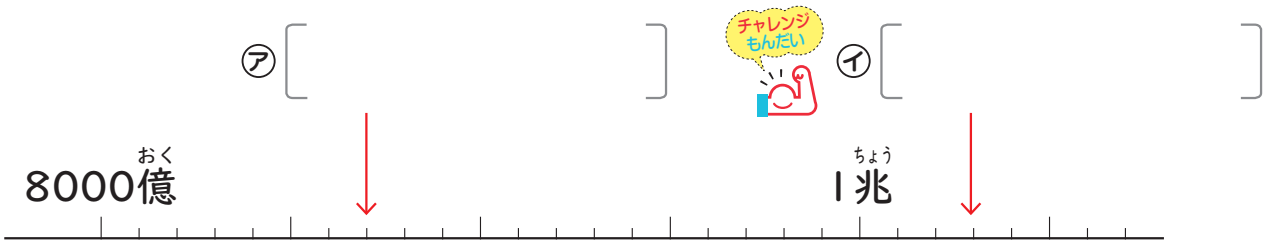

4 ㋐，㋑にあてはまる数を書きましょう。 1つ10点 20点

4兆（ちょう）を10倍した数は ㋐ で，10でわった数は ㋑ です。

㋐ [　　]　㋑ [　　]

5 かけ算をしましょう。 1つ15点 30点

①
$$\begin{array}{r} 247 \\ \times\ 325 \\ \hline \end{array}$$

②
$$\begin{array}{r} 3800 \\ \times\ 620 \\ \hline \end{array}$$

本の2～4ページを
もう一度見てみよう。

© Obunsha Co.,Ltd. All Rights Reserved. 2024

角の大きさ

勉強日　　月　　日

点数　　点

答え 算数②

1 [　]にあてはまる数を書きましょう。

①, ②各10点　20点

① 半回転の角度＝[　　]直角＝[　　]°

② 1回転の角度＝[　　]直角＝[　　]°

2 次の角の大きさを分度器を使って求めましょう。

1つ10点　40点

①

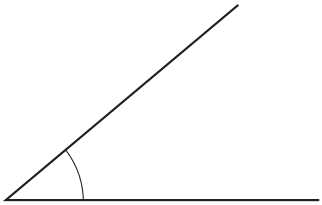

②

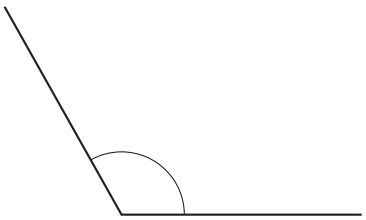

③

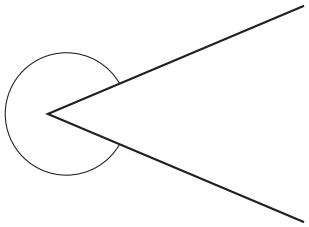

④

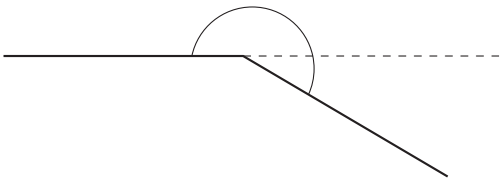

① [　　]　② [　　]　③ [　　]　④ [　　]

3 1組の三角じょうぎを組み合わせてできる，次の角の大きさは何度ですか。

1つ10点　20点

①

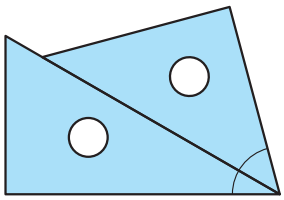

チャレンジもんだい

②

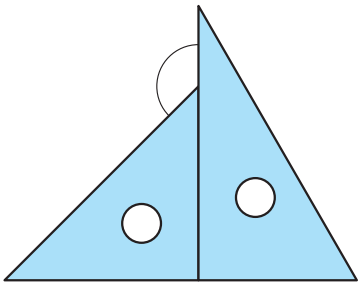

① [　　]

② [　　]

4 下の図のような三角形をかきましょう。

20点

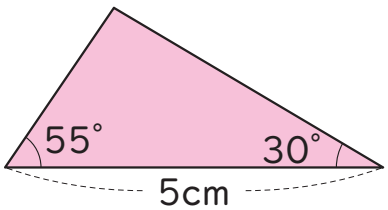

本の5〜8ページを
もう一度見てみよう。

大盛り！ 夏休みドリル 小学４年生〔三訂版〕
© Obunsha Co.,Ltd. All Rights Reserved. 2024

算数 Web おかわりもんだい 3

わり算(1)

点数 点

答え▼算数③

勉強日　月　日

1 わり算をしましょう。　1つ7点　28点

① 80÷2

② 700÷7

③ 210÷3

④ 2400÷8

2 次のわり算で，[　]にあてはまる数を書きましょう。　1つ6点　24点

① [　] ÷5=10

② [　] ÷4=70

③ 72÷6=12

答えのたしかめ　6×[　]=72

④ 83÷3=27あまり2

答えのたしかめ　3×[　]+[　]=83

3 わり算をしましょう。　1つ8点　48点

① $4\overline{)68}$

② $5\overline{)90}$

③ $2\overline{)84}$

④ $6\overline{)76}$

⑤ $4\overline{)59}$

⑥ $3\overline{)98}$

本の9〜11ページを
もう一度見てみよう。

© Obunsha Co.,Ltd. All Rights Reserved. 2024

算数 Web おかわりもんだい 4

わり算(2)

勉強日　　月　　日

点数　　点

答え▼算数④

1 わり算をしましょう。　1つ10点　40点

① $7\overline{)959}$　② $5\overline{)801}$　③ $8\overline{)544}$　④ $9\overline{)687}$

2 計算のくふうのしかたについて，□にあてはまる数を書きましょう。　①，②各10点　20点

① 48÷4＝〈 ㋐□÷4＝㋑□ ／ 8÷㋒□＝㋓□ 〉あわせて ㋔□

② 78÷6＝〈 60÷㋐□＝㋑□ ／ ㋒□÷6＝㋓□ 〉あわせて ㋔□

3 暗算で計算しましょう。　1つ10点　20点

① 72÷4　② 870÷3

4 集会に128人の人が来ました。全員がすわるには3人がけのいすを何こ用意すればよいですか。　式・答え各8点・筆算4点　20点

［式］

［答え］［　　］

［筆算］

本の12〜14ページをもう一度見てみよう。

大盛り！ 夏休みドリル 小学4年生〔三訂版〕
© Obunsha Co.,Ltd. All Rights Reserved. 2024

算数 Web おかわりもんだい 5

垂直と平行/四角形

点数 ／ 点

勉強日　月　日

答え▼算数⑤

1 下の図で，①は垂直な直線の組を，②は平行な直線の組をそれぞれ２つ選び，記号で答えましょう。　1つ6点　24点

チャレンジもんだい

①

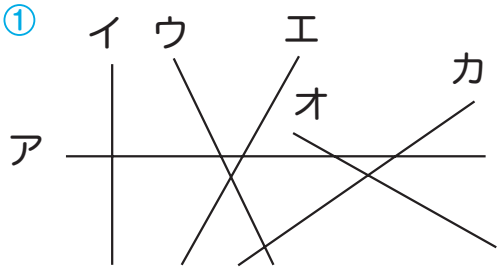

［　と　］［　と　］

②

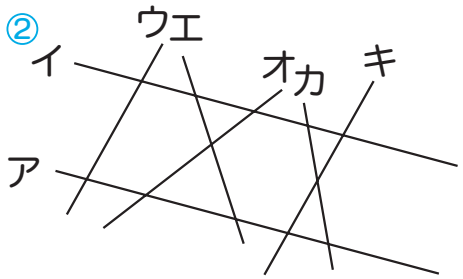

［　と　］［　と　］

2 ①は，点Ａを通り，アの直線に垂直な直線を，②は，点Ｂを通り，アの直線に平行な直線をかきましょう。　1つ12点　24点

①　エー A　　②　ビー B

ア ――――――――――――――――

3 右の図の四角形の特ちょうにあてはまるものを全部選び，記号で答えましょう。　①～④各13点　52点

ア　向かい合った辺の長さが等しい
イ　向かい合った角の大きさが等しい
ウ　4つの辺の長さがすべて等しい
エ　4つの角がすべて直角
オ　2本の対角線の長さが等しい
カ　2本の対角線がそれぞれのまん中の点で交わる
キ　2本の対角線が垂直に交わる
ク　向かい合った2組の辺が平行

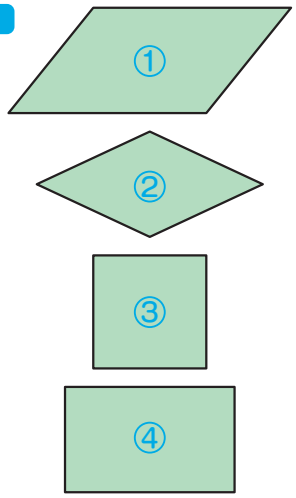

①［　　］　②［　　］

③［　　］　④［　　］

本の16～18ページをもう一度見てみよう。

大盛り！ 夏休みドリル 小学４年生〔三訂版〕
© Obunsha Co.,Ltd. All Rights Reserved. 2024

小数

勉強日　　月　　日

点数　　点

答え▼算数⑥

1 水のかさは何Lですか。

1つ6点　12点

① 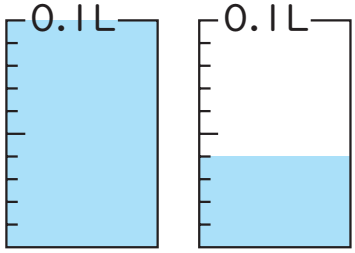

[　　]

② 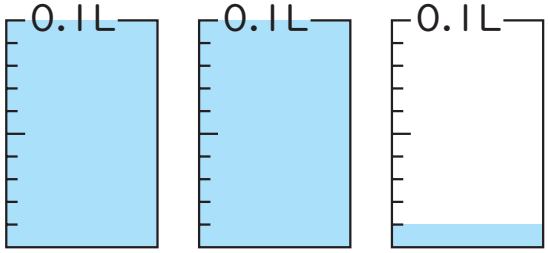

[　　]

2 小数2.045について，[　　]にあてはまる数字を答えましょう。

①～④各7点　28点

① 5は小数第[　　]位の数字です。② $\frac{1}{10}$の位の数字は[　　]です。

③ 0.001を[　　]こ集めた数です。

④ 10倍した数は[　　]，$\frac{1}{10}$にした数は[　　]です。

3 下の数直線で，㋐～㋒のめもりの数を書きましょう。

1つ6点　18点



㋐[　　]　㋑[　　]　㋒[　　]

4 計算をしましょう。

1つ7点　28点

① $\begin{array}{r} 6.28 \\ +\ 3.765 \\ \hline \end{array}$

② $\begin{array}{r} 0.049 \\ +\ 0.051 \\ \hline \end{array}$

チャレンジもんだい

③ $\begin{array}{r} 5 \\ -\ 1.258 \\ \hline \end{array}$

④ $\begin{array}{r} 7.34 \\ -\ 6.59 \\ \hline \end{array}$

5 1kg60gと3kg50gの荷物があります。あわせると何kgになりますか。

式・答え各7点　14点

[式]

[答え][　　]

本の19～21ページを
もう一度見てみよう。

大盛り！ 夏休みドリル 小学４年生〔三訂版〕
© Obunsha Co.,Ltd. All Rights Reserved. 2024

算数 Web おかわりもんだい 7

グラフと表

点数 点

勉強日　　月　　日

答え▼算数⑦

1 右の折(お)れ線(せん)グラフを見て答えましょう。

①1つ10点，②，③各10点　40点

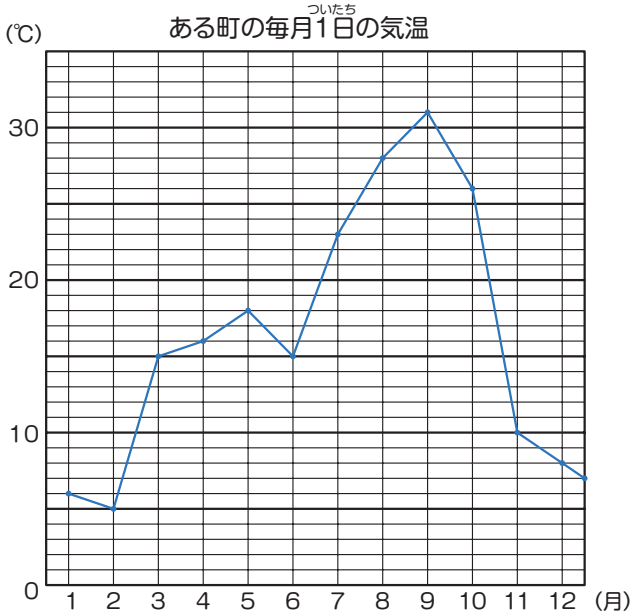

① いちばん気温が高かったのは，何月で，何度ですか。

［　　］月，［　　］

② 気温の上がり方がいちばん大きかったのは，何月から何月にかけてですか。

［　　］月から［　　］月にかけて。

③ 気温の上がり方がいちばん小さかったのは，何月から何月にかけてですか。

［　　］月から［　　］月にかけて。

2 下の表は，あるペットショップで犬とねこのどちらが好(す)きかを調べたものです。

1つ10点　60点

チャレンジもんだい

① 表の㋐，㋑，㋒，㋓，㋔にあてはまる数を書きましょう。

動物の好(す)ききらい調べ（人）

	犬	ねこ	どちらも好(す)きではない	計
20代	23	㋐	7	59
40代	㋑	17	㋒	㋓
計	48	㋔	12	106

㋐［　　］

㋑［　　］　㋒［　　］　㋓［　　］　㋔［　　］

② ㋐は何を表していますか。

［　　］

本の22，23ページをもう一度見てみよう。

© Obunsha Co.,Ltd. All Rights Reserved. 2024