かけ算

点数 点

勉強日 月 日

答え▼算数①

1 □にあてはまる数を書きましょう。 1つ6点 48点

① $3\times5=\square\times3$

② $4\times7=4\times\square+4$

③ $8\times6=8\times\square-8$

④ $5\times\square=5\times2+5$

⑤ $9\times\square=9\times6-9$

⑥ $6\times10=6\times9+\square$

⑦ $7\times0=\square\times1-7$

チャレンジもんだい

⑧ $0\times4=4\times\square-4$

2 右の表はかけ算の表の一部です。㋐，㋑にあてはまる数を書きましょう。 1つ6点 12点

㋐［　　］　㋑［　　］

24	30	36	42
28	35	㋐	49
32	40	48	56
㋑	45	54	63

3 ［　］にあてはまる数を書きましょう。 全部で 10点

4×16 ⟨ $4\times$［　］$=$［　］ / $4\times7=$［　］ ⟩ あわせて［　］

4 ［　］にあてはまる数を書きましょう。 1つ5点 30点

① $4\times$［　］$=24$

② $7\times$［　］$=35$

③ $5\times$［　］$=40$

④［　］$\times4=36$

⑤［　］$\times7=42$

⑥［　］$\times6=18$

本の2～4ページをもう一度見てみよう。

大盛り！ 夏休みドリル 小学3年生〔三訂版〕
© Obunsha Co.,Ltd. All Rights Reserved. 2024

算数 Web おかわりもんだい 2

時こくと時間

勉強日　　月　　日

点数　　点

答え▼算数②

1 時こくをもとめましょう。

1つ8点　24点

① 35分後の時こく

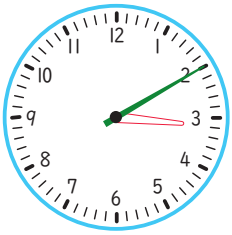

[　　]

② 1時間10分後の時こく



[　　]

③ 45分前の時こく

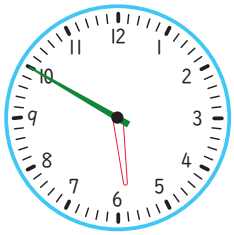

[　　]

2 時間をもとめましょう。

1つ8点　16点

①

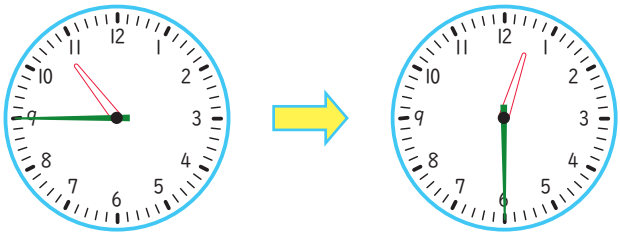

[　　]

チャレンジもんだい

② 3時20分から5時10分までの時間

[　　]

3 [　] にあてはまる数を書きましょう。

①～⑥1つ10点　60点

① 90秒(びょう)＝[　　]分[　　]秒(びょう)

② 140秒(びょう)＝[　　]分[　　]秒(びょう)

③ 3分20秒(びょう)＝[　　]秒(びょう)

④ 160分＝[　　]時間[　　]分

⑤ 3時間＝[　　]分

⑥ 4時間30分＝[　　]分

本の5，6ページをもう一度(いちど)見てみよう。

大盛り！ 夏休みドリル 小学3年生〔三訂版〕
© Obunsha Co.,Ltd. All Rights Reserved. 2024

算数 Web おかわりもんだい 3

わり算

勉強日　　月　　日

点数　　点

答え▼算数③

1 わり算をしましょう。⑬，⑭は［　］にあてはまる数を書きましょう。　1つ5点　70点

① 18÷3　② 28÷7

③ 36÷9　④ 0÷8

⑤ 32÷4　⑥ 54÷6

⑦ 40÷5　⑧ 63÷9

⑨ 9÷1　⑩ 24÷8

⑪ 48÷8　⑫ 15÷3

⑬ 7÷［　］=7



⑭［　］÷5=0

2 30このあめを6人で同じ数ずつ分けると，1人分は何こになりますか。　式・答え各5点　10点

［式］

［答え］［　　］

3 24人を4人ずつの組に分けると，全部で何組できますか。　式・答え各5点　10点

［式］

［答え］［　　］

4 みかんが35こ，りんごが5こあります。みかんはりんごの何倍ありますか。　式・答え各5点　10点

［式］

［答え］［　　］

本の7〜10ページをもう一度見てみよう。

大盛り！ 夏休みドリル 小学3年生〔三訂版〕
© Obunsha Co.,Ltd. All Rights Reserved. 2024

算数 Web おかわりもんだい 4

たし算とひき算の筆算

点数 点

勉強日　　月　　日

答え▼算数④

1 計算をしましょう。

1つ5点 70点

① 637 + 219

② 583 + 124

③ 362 + 439

④ 746 + 85

⑤ 641 − 528

⑥ 372 − 174

⑦ 900 − 863

⑧ 503 − 34

⑨ 4382 + 1945

チャレンジもんだい

⑩ 1573 + 2436

⑪ 5629 + 743

⑫ 8615 − 4317

⑬ 1076 − 999

チャレンジもんだい

⑭ 1002 − 65

2 家からゆうびん局(きょく)まで457m，ゆうびん局(きょく)から駅(えき)まで536mあります。家からゆうびん局(きょく)を通って駅(えき)まで行くとき，道のりは全部(ぜんぶ)で何mですか。

式・答え・筆算各5点 15点

[式(しき)]

[答え] [　　]

[筆算(ひっさん)]

3 3500円を持(も)っていって買(か)い物(もの)をしたところ，のこりは695円でした。買(か)い物(もの)でいくら使(つか)いましたか。

式・答え・筆算各5点 15点

[式(しき)]

[答え] [　　]

[筆算(ひっさん)]

本の11～13ページをもう一度(いちど)見てみよう。

© Obunsha Co.,Ltd. All Rights Reserved. 2024

算数 Web おかわりもんだい 5

長さと長さのたんい/暗算

勉強日　　月　　日

点数　　点

答え▼算数⑤

1 下のまきじゃくで，㋐～㋒のめもりが表す長さを書きましょう。また，㋓1m5cm，㋔1m90cmの長さを表すめもりに，㋓，㋔の記号と↓をかきましょう。

1つ4点　20点

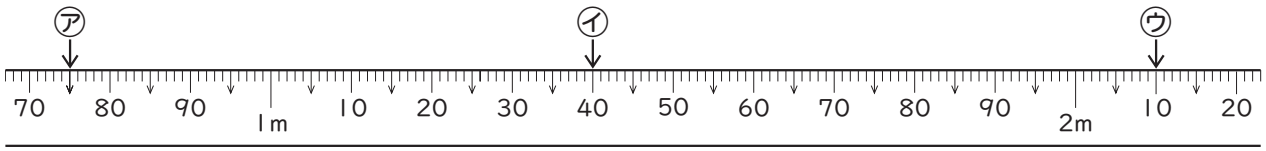

㋐［　　］　㋑［　　］　㋒［　　］

2 ［　］にあてはまる数を書きましょう。

①～④1つ5点　20点

① 70000m＝［　　］km　② 6320m＝［　　］km［　　］m

③ 4km20m＝［　　］m　④ 2km8m＝［　　］m

3 右の図を見て，家から学校までのきょりと道のりをもとめましょう。

①5点，②式・答え各5点　15点

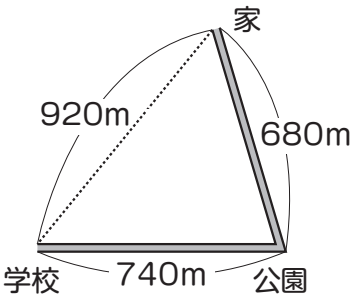

① 家から学校までのきょり［　　］m

② 家から学校までの道のり　［式］

［答え］［　　］m，［　　］km［　　］m

4 暗算で計算しましょう。

1つ5点　45点

① 25＋73　② 46＋18　③ 75＋29

④ 59＋62　⑤ 84－31　⑥ 62－15

⑦ 93－84　チャレンジもんだい　⑧ 100－42　⑨ 100－96

本の14～16ページをもう一度見てみよう。

大盛り！ 夏休みドリル 小学3年生〔三訂版〕
© Obunsha Co.,Ltd. All Rights Reserved. 2024

算数 Web おかわりもんだい 6

あまりのあるわり算

点数 点

勉強日　　月　　日

答え▼算数⑥

1 わり算をしましょう。　1つ6点　36点

① 7÷2　　② 11÷4

③ 42÷9　　④ 61÷7

⑤ 31÷8　　⑥ 53÷7

2 計算をして，答えのたしかめもしましょう。　①〜④1つ6点　24点

① 12÷5　　たしかめ［□×□＋□＝□］

② 45÷6　　たしかめ［□×□＋□＝□］

③ 55÷8　　たしかめ［□×□＋□＝□］

④ 25÷3　　たしかめ［□×□＋□＝□］

3 りんごが41こあります。6人で同じ数ずつ分けると，1人分は何こになって，何こあまりますか。　式・答え各10点　20点

[式(しき)]

[答え]［　　］

チャレンジもんだい

4 同じ大きさの箱(はこ)が34こあります。1回に4こずつ運(はこ)ぶと，何回で全部(ぜんぶ)の箱(はこ)を運(はこ)ぶことができますか。　式・答え各10点　20点

[式(しき)]　　[答え]［　　］

本の18〜20ページをもう一度(いちど)見てみよう。

大盛り！ 夏休みドリル 小学3年生〔三訂版〕
© Obunsha Co.,Ltd. All Rights Reserved. 2024

算数 Web おかわりもんだい 7

一億までの数

点数 点

答え▼算数⑦

勉強日　月　日

1 次の数を読みましょう。　1つ8点　16点

① 704038　[　　]

② 35006050　[　　]

2 数字で書きましょう。　1つ7点　14点

① 十二万九百　[　　]

② 五千万四十三　[　　]

3 [　] にあてはまる数を書きましょう。　①, ②1つ7点　14点

① 2407000は，百万を [　] こ，十万を [　] こ，千を [　] こあわせた数です。

② 65000000は，一万を [　　] こ集めた数です。

4 次の数直線で，㋐，㋑，㋒の表す数を書きましょう。　1つ7点　21点

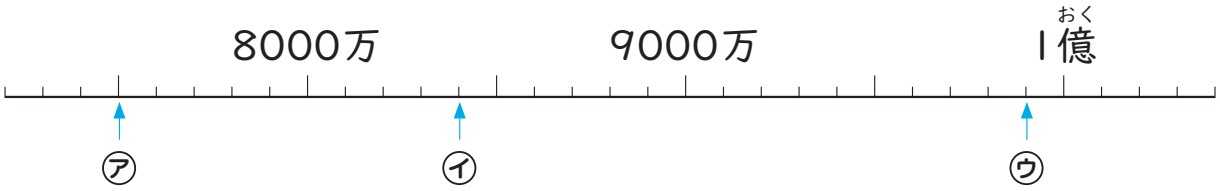

㋐ [　　]　㋑ [　　]　㋒ [　　]

5 [　] にあてはまる等号，不等号を書きましょう。　1つ7点　14点

① 50999 [　] 51000

② 60000＋9000 [　] 70000

6 8050を，㋐10倍した数，㋑1000倍した数，㋒10でわった数を書きましょう。　1つ7点　21点

㋐ [　　]　㋑ [　　]　㋒ [　　]

本の21～23ページをもう一度見てみよう。

大盛り！ 夏休みドリル 小学3年生〔三訂版〕
© Obunsha Co.,Ltd. All Rights Reserved. 2024