算数 Web おかわりもんだい 1

ひょうとグラフ／時こくと時間

点数 点

べん強日　　月　　日

答え▼算数①

1 右の絵を見て，答えましょう。

① くだものの数を数えて，
ひょうに数を書きましょう。

①，②くだもの1つ9点　72点



くだものの数しらべ

くだもの	みかん	りんご	いちご	バナナ
数				

② 上のひょうを，○をつかった
グラフにかきましょう。

くだものの数しらべ

みかん	りんご	いちご	バナナ

2 時計を見て，答えましょう。

①，②1つ9点，③10点　28点

あ



い

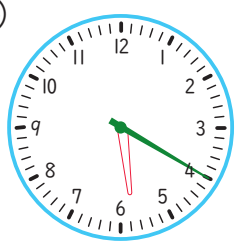

① あの時こく　［　時　分］

② いの時こく　［　時　分］

チャレンジもんだい

③ あからいまでの時間

［　時間　分］

本の2～4ページを
もう一ど見てみよう。

大盛り！ 夏休みドリル 小学2年生〔三訂版〕
© Obunsha Co.,Ltd. All Rights Reserved. 2024

算数 Web おかわりもんだい 2

100までのたし算のひっ算

点数 点

答え▼算数②

べん強日　月　日

1 計算をしましょう

1つ8点 64点

① 16 + 42

② 40 + 53

③ 38 + 21

④ 17 + 23

⑤ 46 + 38

⑥ 59 + 12

⑦ 65 + 3

チャレンジもんだい

⑧ 5 + 46

2 ひっ算で計算しましょう。

1つ9点 36点

① 15+60

② 42+38

③ 7+42

チャレンジもんだい

④ 53+9

本の5，6ページをもう一ど見てみよう。

大盛り！ 夏休みドリル 小学2年生〔三訂版〕
© Obunsha Co.,Ltd. All Rights Reserved. 2024

算数 Web おかわりもんだい 3

100までのひき算のひっ算
100までのたし算とひき算の文しょうだい

べん強日　　月　　日

点数　　点

答え▼算数③

1 計算をしましょう。

1つ15点　60点

チャレンジもんだい

① 85 − 43

② 76 − 2

③ 96 − 28

④ 36 − 27

2 今日は18分さんぽをしました。今日のさんぽの時間は，きのうより9分みじかかったそうです。きのうは何分さんぽしましたか。

式・答え 各8点，筆算4点　20点

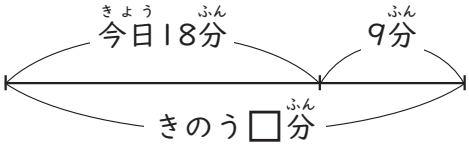

[しき]

[ひっ算]

[答え]

3 長さ60cmのテープをつかったら，のこりは26cmになりました。テープは何cmつかいましたか。

式・答え 各8点，筆算4点　20点

[しき]

[ひっ算]

[答え]

本の7〜11ページをもう一ど見てみよう。

© Obunsha Co.,Ltd. All Rights Reserved. 2024

算数 Web おかわりもんだい 4

長さ

点数 点

べん強日　　月　　日

答え▼算数④

1 左はしから，①，②，③までの長(なが)さは，どれだけですか。　①〜③1つ10点　30点

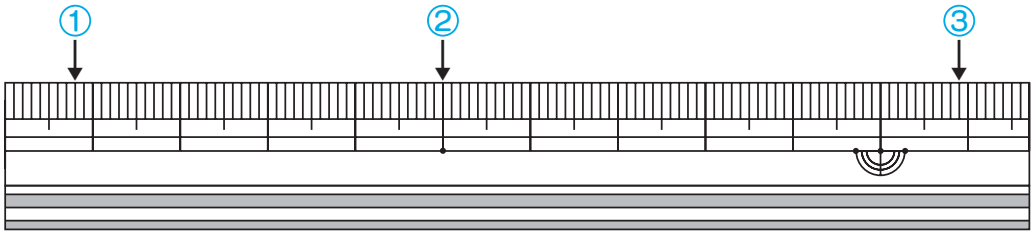

① [　　] mm　② [　　] cm　③ [　　] cm [　　] mm

2 下のえんぴつの長(なが)さは何(なん)cm何(なん)mmですか。　全部で　10点

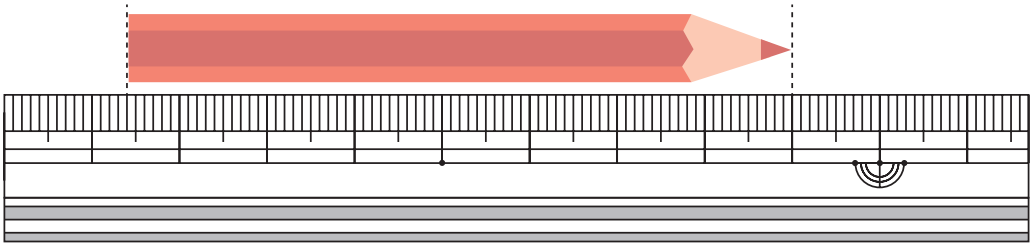

[　　] cm [　　] mm

3 [　　]にあう数(かず)を書(か)きましょう。　①，②1つ12点　24点

① 8cm＝[　　] mm　② 265mm＝[　　] cm [　　] mm

4 計算(けいさん)をしましょう。　①〜③1つ12点　36点

① 4cm6mm＋3mm＝[　　] cm [　　] mm

② 9cm5mm－2cm＝[　　] cm [　　] mm

チャレンジもんだい

③ 8cm2mm＋1cm4mm＝[　　] cm [　　] mm

本の12〜14ページをもう一ど見てみよう。

大盛り！ 夏休みドリル 小学2年生〔三訂版〕
© Obunsha Co.,Ltd. All Rights Reserved. 2024

算数 Web おかわりもんだい 5

3けたの数(1)

点数 点

べん強日　　月　　日

答え▼算数⑤

1 [　]にあう数を書きましょう。　1つ10点　20点

① 100を2こ，1を8こあわせた数は，[　　]です。

② 360は，10を[　　]こあつめた数です。

2 [　]にあう数を書きましょう。　12点

百のくらいが5，十のくらいが4，一のくらいが7の数は，

[　　]です。

3 下の数の線について，①，②に答えましょう。　①，②1つ11点　44点

① [　]にあう数を書きましょう。

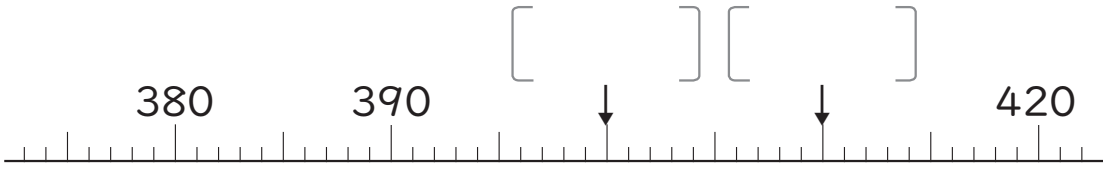

② 376をあらわすめもりに↓とあを，394をあらわすめもりに↓といをかきましょう。

4 下の数の線を見て，[　]にあう数を書きましょう。　1つ12点　24点

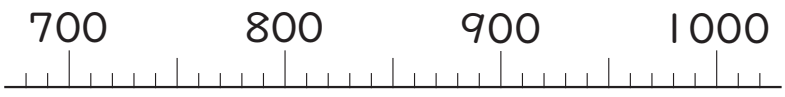

① 850は，あと[　　]で1000になります。

チャレンジもんだい

② 1000より240小さい数は，[　　]です。

本の16～18ページをもう一ど見てみよう。

大盛り！ 夏休みドリル 小学2年生〔三訂版〕
© Obunsha Co.,Ltd. All Rights Reserved. 2024

算数 Web おかわりもんだい 6

3けたの数(2)

点数 点

答え▼算数⑥

べん強日　月　日

1 つぎの数をかん字で書きましょう。　1つ5点 20点

① 523 [　　]　② 706 [　　]

③ 140 [　　]　④ 900 [　　]

2 つぎのかん字を数字で書きましょう。　1つ5点 20点

① 五百七十二 [　　]　② 四百六 [　　]

③ 六百十 [　　]　④ 三百八十 [　　]

3 計算をしましょう。　1つ6点 36点

① 70＋60＝[　　]　② 200＋30＝[　　]

③ 430＋80＝[　　]　④ 130－50＝[　　]

チャレンジもんだい

⑤ 620－360＝[　　]　⑥ 500－90＝[　　]

4 [　]にあう＞，＜，＝を書きましょう。　1つ6点 24点

① 698 [　] 701　② 140 [　] 80＋50

③ 120＋480 [　] 590　④ 500－370 [　] 130

本の19~21ページをもう一ど見てみよう。

大盛り！ 夏休みドリル 小学2年生〔三訂版〕
© Obunsha Co.,Ltd. All Rights Reserved. 2024

算数 Web おかわりもんだい 7

水のかさ

点数 点

答え▼算数⑦

べん強日　月　日

1 かさはどれだけですか。　①, ②1つ15点　30点

① 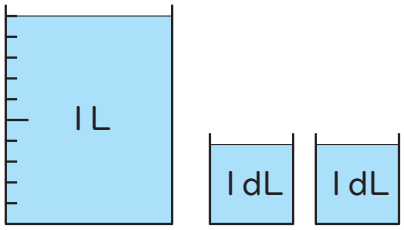

[　　]L[　　]dL

② 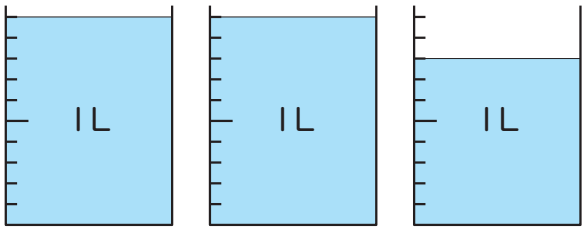

[　　]L[　　]dL

2 [　]にあう数を書きましょう。③～⑤は計算して答えましょう。　①～⑤1つ14点　70点

① 6L20mL=[　　]mL

② 715dL=[　　]L[　　]dL

③ 3dL＋2L4dL=[　　]L[　　]dL

チャレンジもんだい ④ 5L7dL+8L6dL=[　　]L[　　]dL

チャレンジもんだい ⑤ 9L5dL－3L2dL=[　　]L[　　]dL

本の22，23ページをもう一ど見てみよう。

大盛り！ 夏休みドリル 小学2年生〔三訂版〕
© Obunsha Co.,Ltd. All Rights Reserved. 2024